Теориялык турда катышуучулар жабык (А бөлүгү) жана ачык (Б бөлүгү) типтеги тапшырмаларды аткарышат.
А бөлүгү. Жабык типтеги тест тапшырмаларындагы берилген суроого ар кандай вариантта жооп берсе болот:

- Жоопту тандоо тапшырмалары. Олимпиаданын катышуучусу сунушталган жооп варианттарынан бир же бир нече туура болгон жоопту (жоопторду) тандап алышы керек.
- Бөлүк, элемент, түшүнүктөрдү таап же конструкция, ырастоолорго теңештирип; эки (же көп) тизменин элементтеринин ортосундагы дал келүүнү калыбына келтирүүгө багытталган тапшырмалар.
- Факты, кубулуш байланыштарындагы ыраттуулукту калыбына келтирүүгө багытталган тапшырмалар.

Б бөлүгү. Ачык типтеги тапшырмалар – эркин баяндоо же эркин түзүлүштөгү тапшырмалар:

- Коюлган талаптарга жооп берген объекттерди өз алдынча тандоого багытталган тапшырмалар.
- Тапшырманын мазмуну боюнча катышуучулардын кеңири жоопторун талап кылган тапшырмалар.

Теориялык турдагы тапшырмаларды аткарууга бөлүнгөн убакыт 3 астрономиялык сааттан ашпаган көлөмдө аныкталат.

В **теоретическом туре** участники выполняют тестовые задания закрытого (часть А) и открытого (часть Б) типа.
Часть А. Тестовые задания закрытого типа предусматривают различные варианты ответов на поставленный вопрос:

- Задания с множественным выбором ответа. Из ряда предлагаемых вариантов ответов участнику олимпиады необходимо выбрать один или несколько ответов.
- Задания на восстановление соответствия, в которых необходимо найти или приравнять части, элементы, понятия конструкциям, утверждениям; восстановить соответствие между элементами двух (и более) списков.
- Задания на восстановление последовательности фактов или явлений.

Часть Б. Задания открытого типа - задания свободного изложения или свободного конструирования:

- Задания на самостоятельный выбор объектов, отвечающих названным требованиям.
- Задания, предполагающие развернутые ответы участников по сути задания.

Продолжительность теоретического тура определяется в объёме 3 астрономических часов.

Для выполнения заданий участникам олимпиады потребуются ручка и линейка. Не допускается использование мобильных телефонов. Все необходимые математические расчёты выполняются в выданных администраторами черновиках.

География боюнча республикалык олимпиада
Теориялык тур

А бөлүгү. Тесттик тапшырмалар

1. 8° түндүк кеңдикте жана 169° батыш узундукта жайгашкан чекиттен 26° түндүк кеңдикте жана 173° чыгыш узундукта жайгашкан чекитке эң кыска жол менен жетүү үчүн кайсы багытта жылыш керек? *(Бир туура жоопту тегеректегиле. Жооптордун жанындагы бош жерди графикалык ой жүгүртүүлөр үчүн пайдаланыңыз).*
А. Түндүк-чыгышка
Б. Түштүк-батышка
В. Түндүк-батышка
Г. Түштүк-чыгышка

2. 1050° тун азимуту канчага барабар? *(Бир туура жоопту тегеректегиле. Жооптордун жанындагы бош жерди эсептөөлөр үчүн пайдаланыңыз).*
А. 250°
Б. 280°
В. 315°
Г. 330°

3. Бул сүрөттөр Тянь-Шань территориясынын ар кайсы геологиялык эпохалардагы сырткы келбетин чагылдырат. Тянь-Шань территориясы протерозой эрасында жана кембрий доорунда кандай эле? *(Тийиштүү тамганы тегеректегиле).*

А.	Б.	В.	Г.
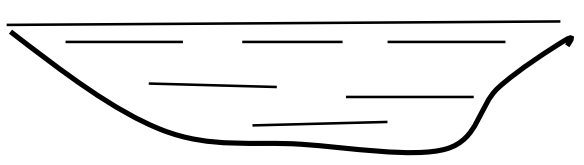	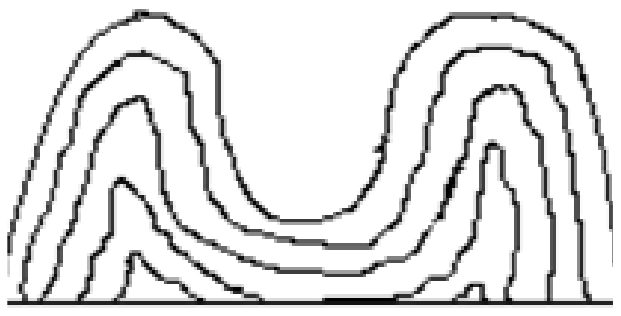		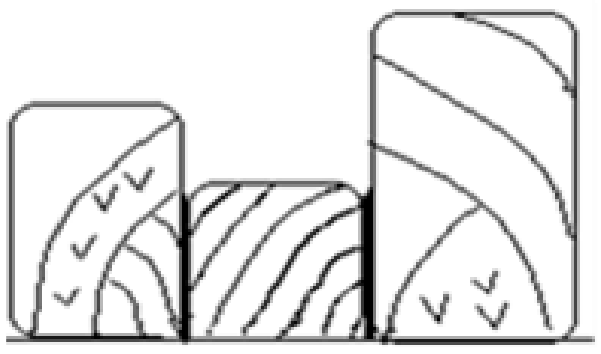

4. Төмөндө келтирилген агымдардын кайсы жубу муздак агымдар? (*Үч туура жоопту тегеректегиле).*
А. Перу агымы жана Гольфстрим агымы
Б. Калифорния агымы жана Бенгал агымы
В. Түндүк пассат агымы жана Түндүк-Тынч океан агымы
Г. Куросио агымы жана Сомали агымы
Д. Муссон агымы жана Гвинея агымы
Е. Батыш шамалдардын агымы жана Лабрадор агымы
Ж. Бразилия агымы жана Гвинея агымы
З. Канар агымы жана Фолкленд агымы

5. Кыргызстандын кайсы көлү жер титирөөнүн жана аска породаларынын көчкүсүнүн натыйжасында пайда болгон? (*Бир туура жоопту тегеректегиле).*
А. Кулун
Б. Ысык-Көл
В. Ала-Көл
Г. Соң-Көл
Д. Чатыр-Көл
Е. Мерцбахер көлү

Республиканская олимпиада по географии
Теоретический тур

Часть А. Тестовые задания

1. В каком направлении нужно двигаться, чтобы кратчайшим путём попасть из точки с координатами 8° с.ш 169° з.д. в точку с координатами 26° с.ш 173° в.д.? *(Обведите один правильный ответ. Используйте свободное пространство рядом с ответами для графических рассуждений).*
А. На северо-восток
Б. На юго-запад
В. На северо-запад
Г. На юго-восток

2. Чему равен азимут 1050°? *(Обведите один правильный ответ. Используйте свободное пространство рядом с ответами для вычислений).*
А. 250°
Б. 280°
В. 315°
Г. 330°

3. Эти рисунки изображают внешний облик территории Тянь-Шаня в разные геологические эпохи. Как выглядела территория Тянь-Шаня в протерозойскую эру и кембрийский период? *(Обведите нужную букву).*

А.	Б.	В.	Г.
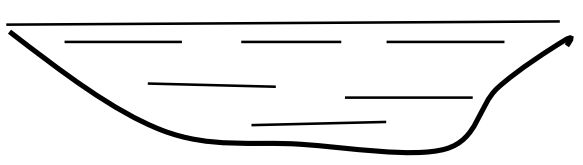	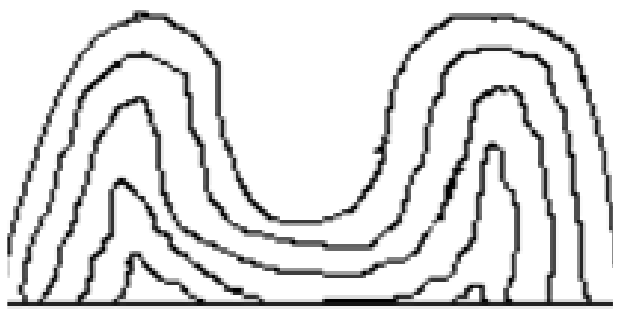		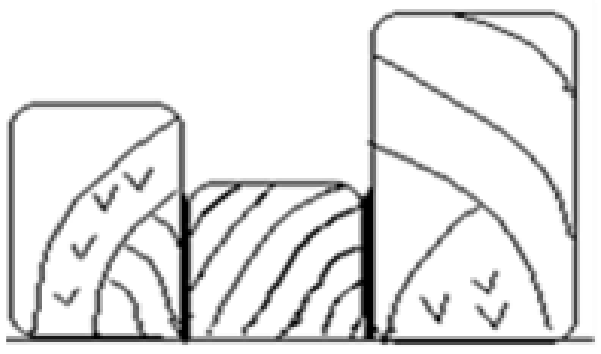

4. Какие из приведённых ниже пар течений являются холодными? (*Обведите три правильных ответа).*
А. Перуанское и Гольфстрим
Б. Калифорнийское и Бенгельское
В. Северное пассатное и Северо-Тихоокеанское
Г. Куросио и Сомалийское
Д. Муссонное и Гвинейское
Е. Течение Западных ветров и Лабрадорское
Ж. Бразильское и Гвинейское
З. Канарское и Фолклендское

5. Какое озеро Кыргызстана образовалось в результате землетрясения и обвала скальных пород? (*Обведите один правильный ответ).*
А. Кулун
Б. Иссык-Куль
В. Ала-Куль
Г. Сон-Кёль
Д. Чатыр - Кёль
Е. Озеро Мерцбахера

6. Аба температураларынын жылдык амплитудасынын абсолюттук маанилери Бишкекте – 76° С, Ошто – 64,6° С, Нарында – 71,6° С, «Тянь-Шань» метеостанциясында – 64,3° С түзөт. Көрсөтүлгөн пункттардын кайсынысында климаттын континенталдуулугунун деңгээли жогоруураак деп ойлойсуңар? (*Бир туура жоопту тегеректегиле).*

А. Бишкекте
Б. Ошто
В. Нарында
Г. «Тянь-Шань» метеостанциясында

7. Төмөндө берилген Кыргызстандын ири дарыяларынын кайсылары Жалал-Абад облусунун территориясында агат? (*Бир нече туура жоопту тегеректегиле).*

А. Нарын
Б. Кызыл-Суу
В. Жоон-Арык
Г. Ак-Суу
Д. Кара-Суу
Е. Ала-Бука
Ж. Кара-Үңкүр

8. Төмөндө келтирилген Кыргызстандын коргоого алынган территорияларынын кайсынысы уникалдуу арчаларды коргоо үчүн уюштурулган жана Кичи-Алай тоо кыркасынын түндүк бетинде жайгашкан? *(Бир туура жоопту тегеректегиле).*

А. Беш-Таш жаратылыш паркы
Б. Сарычат-Ээрташ коругу
В. Кыргыз-Ата жаратылыш паркы
Г. Беш-Арал коругу
Д. Сары-Челек биосфералык коругу

9. Кайсы Антарктида станциясы Жеткистик Уюлу деп аталган жерде жайгашкан? (*Бир туура жоопту тегеректегиле).*

А. Мак-Мёрдо
Б. Восток
В. Мирный
Г. Кейси
Д. Дюмон-д`Юрвиль
Е. Беллинсгаузен

10. Төмөндө келтирилген Кыргызстандын шаарларынын кайсы жубу райондук маанидеги шаарлар болуп саналат? (*Бардык туура жоопторду тегеректегиле).*

А. Кара-Суу жана Кочкор-Ата
Б. Кызыл-Кыя жана Сүлүктү
В. Кадамжай жана Талас
Г. Кербен жана Исфана
Д. Өзгөн жана Кемин
Е. Токмок жана Таш-Көмүр
Ж. Көк-Жаңгак жана Балыкчы

6. Абсолютные значения годовой амплитуды температур воздуха составляют в Бишкеке - 76° С, Оше – 64,6° С, Нарыне – 71,6° С, на метеостанции «Тянь-Шань» - 64,3° С. Как вы думаете, в каком из указанных пунктов степень континентальности климата выше? (*Обведите один правильный ответ).*
А. В Бишкеке
Б. В Оше
В. В Нарыне
Г. На метеостанции «Тянь-Шань»

7. Какие из перечисленных крупных рек Кыргызстана протекают на территории Джалал-Абадской области? (*Обведите несколько правильных ответов).*
А. Нарын
Б. Кызыл-Суу
В. Джоон-Арык
Г. Ак-Суу
Д. Кара-Суу
Е. Ала-Бука
Ж. Кара-Ункюр

8. Какая из приведенных ниже охраняемых территорий Кыргызстана организована для защиты уникальных арчовых зарослей и расположена на северном склоне Кичи-Алайского хребта? *(Обведите один правильный ответ).*
А. Беш-Ташский природный парк
Б. Сарычат-Ээрташский заповедник
В. Кыргыз-Атинский природный парк
Г. Беш-Аральский заповедник
Д. Сары-Челекский биосферный заповедник

9. Какая Антарктическая станция расположена в месте, которое называется Полюсом Недоступности? (*Обведите один правильный ответ).*
А. Мак-Мёрдо
Б. Восток
В. Мирный
Г. Кейси
Д. Дюмон - д`Юрвиль
Е. Беллинсгаузен

10. Какие из приведенных ниже пар городов Кыргызстана являются городами районного значения? (*Обведите все правильные ответы).*
А. Кара-Суу и Кочкор-Ата
Б. Кызыл-Кия и Сулюкта
В. Кадамжай и Талас
Г. Кербен и Исфана
Д. Узген и Кемин
Е. Токмок и Таш-Кумыр
Ж. Кок-Джангак и Балыкчи

11. Төмөндө келтирилген ырастоолордун кайсынысында абанын планетабыздын айланасында жылышынын ылдамдыгына байланыштуу географиялык мыйзамченемдүүлүк туура чагылдырылган? (*Бир туура жоопту тегеректегиле).*
А. Уюлдарга канчалык жакын болсо, жылган абанын ылдамдыгы ошончолук аз.
Б. Абанын кыймылынын ылдамдыгы уюлдардан экваторду көздөй азаят.
В. Атмосфера Жер менен бирге планетанын айлануу ылдамдыгына жакын ылдамдык менен жылат.
Г. Жылган абанын ылдамдыгына Кориолис күчү таасир этет.

12. Минералдык ресурс түрлөрү менен алардын эң ири көлөмдө чыккан жерлеринин аталыштарын жана алар жайгашкан өлкөлөрдү дал келтиргиле. (*Биринчи мамычадагы ар бир минералдык ресурстун аталышына дал келген экинчи мамычадагы ал минералдык ресурстар алынган жердин аталышын жана үчүнчү мамычадагы өлкөнүн аталышын тандагыла. Цифралардын жанына чоң (баш) жана кичине тамгаларды жазгыла, мисалы:* 1. В, а)**.**

1.	Фосфориттер	А.	Итабира	а.	Сауд Аравиясы
2.	Нефть	Б.	Юсуфия	б.	Бразилия
3.	Темир рудалары	В.	Чукикамата	в.	Германия
4.	Жез рудалары	Г.	Рур	г.	Марокко
5.	Таш көмүр	Д.	Гавар	д.	Чили

Тамгаларды тийиштүү ыраатуулукта жазгыла: 1. 2. 3. 4. 5.

13. Төмөндө берилген «өлкө – химиялык өнөр жай адистик тармагы» тибиндеги беш айкаштын кайсынысы туура түзүлгөн? (*Бир туура жоопту тегеректегиле).*
А. Бельгия – боёочу заттар жана пластмассалар
Б. Швейцария – токой химиясы
В. Швеция – фармацевтика
Г. Франция – синтетикалык каучук
Д. Германия – химиялык жер семирткичтер жана содалык өндүрүш

14. Ламаизм дини боюнча «Жердин уйкусун бузууга болбойт», андыктан жер иштетүү бул өлкөдө салыштырмалуу жакында гана өнүгө баштады. Бул кайсы өлкө? (*Бир туура жоопту тегеректегиле).*
А. Мьянма
Б. Бутан
В. Непал
Г. КЭДР
Д. Монголия

15. Ош – Хорог унаа жолу боюнча саякатка жөнөсөңүз, Кыргызстандын территориясындагы кайсы тоо ашууларынан (белдеринен) өтөсүңөр? (*Бардык туура жоопторду тегеректегиле).*
А. Төө-Ашуу
Б. Чийирык
В. Кара-Буура
Г. Талдык
Д. Кызыл-Арт
Е. Ала-Бел

11. В каком из ниже приведённых утверждений правильно отражена географическая закономерность, связанная со скоростью перемещения воздуха вокруг нашей планеты? (*Обведите один правильный ответ).*

А. Чем ближе к полюсам, тем скорость перемещающегося воздуха меньше

Б. Скорость перемещения воздуха уменьшается от полюсов к экватору

В. Атмосфера движется вместе с Землёй примерно со скоростью вращения планеты

Г. На скорость перемещающегося воздуха влияет сила Кориолиса

12. Установите соответствие между видами минеральных ресурсов, названиями их крупнейших месторождений и странами, в которых они расположены. (*К каждому названию минерального ресурса из первого столбика подберите название месторождения из второго столбика и название страны из третьего столбика. Рядом с цифрами напишите большую букву и маленькую букву, например:* 1. В, а)**.**

1.	Фосфориты	А.	Итабира	а.	Саудовская Аравия
2.	Нефть	Б.	Юсуфия	б.	Бразилия
3.	Железные руды	В.	Чукикамата	в.	Германия
4.	Медные руды	Г.	Рур	г.	Марокко
5.	Каменный уголь	Д.	Гавар	д.	Чили

Запишите буквы в нужной последовательности: 1. 2. 3. 4. 5.

13. Какое из пяти данных ниже сочетаний «страна – отрасль специализации химической промышленности» составлено верно? (*Обведите один правильный ответ).*

А. Бельгия - красители и пластмассы

Б. Швейцария – лесохимия

В. Швеция - фармацевтика

Г. Франция – синтетический каучук

Д. Германия – химические удобрения и содовое производство

14. Согласно ламаистской религии «Нельзя тревожить сон Земли», поэтому земледелие в этой стране стало развиваться сравнительно недавно. Что это за страна? (*Обведите один правильный ответ).*

А. Мьянма

Б. Бутан

В. Непал

Г. КНДР

Д. Монголия

15. Через какие горные перевалы на территории Кыргызстана вы проедете, если отправитесь в путешествие по автодороге Ош – Хорог? (*Обведите все правильные ответы).*

А. Тоо-Ашу

Б. Чийирык

В. Кара Буура

Г. Талдык

Д. Кызыл-Арт

Е. Алабель

16. Төмөндө келтирилген мисалдардын кайсынысы географиялык кабыктын (оболочканын) бүтүндүгүн тастыктап турат? (*Бир туура жоопту тегеректегиле).*
А. Ички процесстердин таасири астында бийик тоолор жана терең ойдуңдар пайда болот.
Б. Планетабыздын жашоосунда вулканизмдин дүркүрөгөн өнүгүүсүнүн жана жер кыртышынын салыштырмалуу тынчтыгынын доорлору байкалат.
В. Материктин ичин көздөй жылган сайын токойлорду талаалар жана токой-талаалар алмаштырат.
Г. Баренц деңизинде муздуулук көбөйгөн жылдары Африкадагы көлдөрдө суунун деңгээли төмөндөйт.

17. Кайсы тоо кыркасы катачылык менен Ортоңку Тянь-Шань тоо кыркаларынын тизмесине кирип калган? (*Бир туура жоопту тегеректегиле).*
А. Чаткал
Б. Көөлү
В. Жетим-Тоо
Г. Нарын-Тоо
Д. Чандалаш
Е. Молдо-Тоо
Ж. Көк-Ийрим-Тоо
З. Жумгал-Тоо
И. Пскем
К. Ак-Шыйрак тоо түйүнү

18. Кыргызстандын пайдалуу кендеринин түрлөрү менен алар казылып алынган жерлердин аттарын дал келтиргиле.

1.	Нефть	А.	Жыргалаң
2.	Газ	Б.	Арым
3.	Көмүр	В.	Чаувай
4.	Сурьма	Г.	Кадамжай
5.	Күмүш	Д.	Чангыр-Таш
6.	Полиметалл рудалары	Е.	Үч-Эмчек
7.	Мрамор	Ж.	Сары-Таш
8.	Сымап	З.	Кең-Шанык

Тамгаларды тийиштүү ырааттуулукта жазгыла: 1. 2. 3. 4. 5. 6. 7. 8.

19. Сүрөттөлүшү боюнча өлкөнү аныктагыла. Бул өлкөнүн территориясынын бир бөлүгү, анын ичинде эл аралык Чанги аэропорту да, мурун деңиз болчу. Калкынын курамынын 77 пайызын кытай улуту, 15 пайызын малай улуту, калганын Түштүк Азиядан чыккан улуттар түзөт. Бул – индустриялуу өлкө. Ал деңиз жолдорунун кесилишинде жайгашкан жана дүйнөдө Роттердам жана Хьюстондон кийинки нефтехимиянын үчүнчү борбору болуп саналат. Бул жакта экспортко багытталган жаңы жана илимге негизделген тармактар өнүккөн. Образдуу айтканда, бул өлкө – «Чыгыштын батыш дарбазасы». (*Бир туура жоопту тегеректегиле).*
А. Тайвань
Б. Сингапур
В. Малайзия
Г. Индонезия
Д. Филиппиндер

16. В каком из ниже приведенных примеров находится подтверждение целостности географической оболочки? (*Обведите один правильный ответ).*
А. Под влиянием внутренних процессов образуются высокие горы и глубокие впадины

Б. В жизни нашей планеты наблюдаются периоды бурного развития вулканизма и относительного спокойствия земной коры
В. По мере продвижения в глубь материка леса сменяются степями и лесостепями
Г. В годы, когда в Баренцевом море увеличивается ледовитость, уровень воды в африканских озёрах понижается

17. Какой хребет попал по ошибке в перечень хребтов Среднего Тянь-Шаня? (*Обведите один правильный ответ).*
А. Чаткальский
Б. Кёёлу
В. Жетим-Тоо
Г. Нарын-Тоо
Д. Чандалашский
Е. Молдо-Тоо
Ж. Кёк-Ийрим-Тоо
З. Жумгал-Тоо
И. Пскемский
К. Ак-Шыйракский горный узел

18. Соотнесите виды полезных ископаемых Кыргызстана с названиями их месторождений.

1. Нефть	А. Жыргалан
2. Газ	Б. Арымское
3. Уголь	В. Чаувай
4. Сурьма	Г. Кадамджай
5. Серебро	Д. Чангыр-Таш
6. Полиметаллические руды	Е. Уч-Эмчек
7. Мрамор	Ж. Сары-Таш
8. Ртуть	З. Кен-Шаньк

Запишите буквы в нужной последовательности: 1. 2. 3. 4. 5. 6. 7. 8.

19. Определите страну по её описанию. Часть территории этой страны, включая международный аэропорт Чанги, отвоёвана у моря. В структуре национального состава 77 % составляют китайцы, 15 % - малайцы, остальные – выходцы из Южной Азии. Это индустриальная страна. Она лежит на перекрёстке морских путей и является третьим в мире центром нефтехимии после Роттердама и Хьюстона. Здесь развиты новые и наукоёмкие отрасли, работающие на экспорт. По образному выражению эта страна - «Западные ворота Востока». (*Обведите один правильный ответ).*
А. Тайвань
Б. Сингапур
В. Малайзия
Г. Индонезия
Д. Филиппины

20. Инновациялык No-till технологиясы чарбанын кайсы тармагында колдонулат? (*Бир туура жоопту тегеректегиле).*
А. Транспорт
Б. Машина куруу
В. Гидроэнергетика
Г. Дыйканчылык
Д. Мал чарбачылык
Е. Кара металлургия

21. Генрих Гейненин образдуу айтымы боюнча, транспорттун кайсы түрү «мейкиндикти өлтүргөн»? (*Бир туура жоопту тегеректегиле).*
А. Деңиз транспорту
Б. Автомобилдик транспорт
В. Темир жол транспорту
Г. Трубопроводдук транспорт

22. Тур Хейердал «Кон-Тики» салын (плотун) курууда кайсы дарактын устундарын колдонгон? (*Бир туура жоопту тегеректегиле).*
А. Бальса дарагы
Б. Сейба дарагы
В. Баобаб дарагы
Г. Кызыл дарак
Д. Сандал дарагы
Е. Араукария дарагы

23. Төмөндө келтирилген тизмедеги фактылардын ичинен Кыргызстандын рельефи менен экономикасынын өз ара байланышын көрсөткөндөрүн тандагыла. (*Төрт туура жоопту тегеректегиле).*
А. Бийик тоолордо күркүрөгөн дарыялар башат алат.
Б. Ленин атындагы чоку – бийиктиги боюнча Кыргызстандагы экинчи чоку.
В. Кумтөр – алтын запастары боюнча дүйнөдөгү үчүнчү кен, дүйнөдөгү эң бийик тоолуу кен чыгуучу жай болуп саналат.
Г. Алай өрөөнү өзүнүн жайлоолору менен атактуу.
Д. Ойдуңдар жана тоолордун арасындагы өрөөндөр борпоң катмарлардын негизинде пайда болгон.
Е. Түшүмдү мол берүүчү топурактар түзөң жерлерде жана жантайыңкы беттерде калыптанат.

24. Төмөндө берилген мамлекеттердин ичинен жарым аралдуу болгондорун тандагыла? *(Беш туура жоопту тегеректегиле).*
А. Лаос
Б. Ботсвана
В. Түркия
Г. Греция
Д. Тайвань
Е. Дания
Ж. Македония
З. Малайзия
И. Филиппиндер

20. В какой отрасли хозяйства используется инновационная No-till технология? (*Обведите один правильный ответ).*
А. Транспорт
Б. Машиностроение
В. Гидроэнергетика
Г. Земледелие
Д. Животноводство
Е. Чёрная металлургия

21. Какой вид транспорта, по образному выражению Генриха Гейне, «убил пространство»? (*Обведите один правильный ответ).*
А. Морской
Б. Автомобильный
В. Железнодорожный
Г. Трубопроводный

22. Бревна какого дерева использовал Тур Хейердал при строительстве плота «Кон-Тики»? (*Обведите один правильный ответ).*
А. Бальса
Б. Сейба
В. Баобаб
Г. Красное
Д. Сандаловое
Е. Араукария

23. Из приведённого ниже списка фактов отберите те, которые указывают на взаимосвязь рельефа и экономики Кыргызстана? (*Обведите четыре правильных ответа).*
А. В высокогорьях берут начало бурные реки
Б. Пик имени Ленина – второй по высоте пик в Кыргызстане
В. Кумтор – третье по запасам золота месторождение в мире, является самым высокогорным рудником в мире
Г. Алайская долина славится своими жайлоо
Д. Впадины и межгорные долины образованы рыхлыми отложениями
Е. Плодородные почвы формируются на равнинных участках и пологих склонах

24. Из представленных ниже государств выберите те, которые являются полуостровными? *(Обведите пять правильных ответов).*
А. Лаос
Б. Ботсвана
В. Турция
Г. Греция
Д. Тайвань
Е. Дания
Ж. Македония
З. Малайзия
И. Филиппины

25. Кыргызстандын тамак-аш тармагындагы май чыгаруучу жана май бышыруучу заводдорунун айырмасы эмнеде? Заводдорду алар чыгарган продукция менен жана алардын жайгаштырылышына таасир этүүчү факторлор менен дал келтиргиле.

1.	Май чыгаруучу заводдор	А.	Уруктарында май камтылган айыл чарба культуралары өстүрүлгөн жерлерде жайгашат.
		Б.	Сүт мал чарбачылыгы өнүккөн жерлерде жайгашат.
2.	Май бышыруучу заводдор	В.	Ак май (каймак май) жана сары май чыгарышат.
		Г.	Өсүмдүк майын чыгарышат.

Тийиштүү тамгаларды жазгыла: 1. 2.

26. ИТРдин (илимий-техникалык революциянын) шарттарында биринчи кезекте чарбанын кайсы тармактары өлкөнүн экономикалык жактан өнүгүшүнүн деңгээлин аныктайт?
(Үч туура жоопту тегеректегиле).
А. Тоо-кен өнөр жайы
Б. Машина куруу
В. Химиялык өнөр жай
Г. Түстүү металлургия
Д. Кара металлургия
Е. Электр энергетикасы

Б бөлүгү. Ачык типтеги тапшырмалар

Тапшырма 1. (6 балл)
Биздин планетада кызык бир жер бар – ал жакта бир эле учурда эки океан, эки деңиз бригет жана эки материк, дүйнөнүн эки бөлүгү, эки жарым арал, эки мамлекет бөлүнөт.
1. Таблицанын бош чарчыларына бул жерде бириккен же бөлүнгөн географиялык объекттердин аталыштарын жазгыла.

Географиялык объекттер	Аталыштары	
	1	2
Океандар		
Деңиздер		
Материктер		
Дүйнө бөлүктөрү		
Жарым аралдар		
Мамлекеттер		

2. Бул жер кандай аталарын жазгыла ______________________________________.

Тапшырма 2. (6 балл)
Эмне үчүн Африканын ири дарыялары, эреже катары, кеме жүрүүгө жараксыз, бирок гидроэнергиянын ири запастарына ээ экендигин түшүндүрүп бергиле.

____
____
____
____
____
____
____
____
____

25. В чем состоит различие между маслодельными и маслобойными заводами в пищевой отрасли Кыргызстана? Соотнесите заводы с продукцией, производимой ими и факторами их размещения.

1.	Маслодельные заводы	А.	Размещаются там, где выращиваются сельскохозяйственные культуры, семена которых содержат масло
		Б.	Находятся там, где развито молочное животноводство
2.	Маслобойные заводы	В.	Выпускают сливочное и топленое масло
		Г.	Производят растительное масло

Запишите соответствующие буквы: 1. 2.

26. Какие отрасли хозяйства в условиях НТР в первую очередь определяют уровень экономического развития страны? *(Обведите три правильных ответа).*
А. Горнодобывающая промышленность
Б. Машиностроение
В. Химическая промышленность
Г. Цветная металлургия
Д. Черная металлургия
Е. Электроэнергетика

Часть Б. Задания открытого типа
Задание 1. (6 баллов)
На нашей планете есть интересное место, в котором одновременно соединяются два океана, два моря и разделяются два материка, две части света, два полуострова, два государства.
1. В пустые ячейки таблицы впишите названия географических объектов, которые в этом месте соединяются или разделяются.

Географические объекты	**Названия**	
	1	2
Океаны		
Моря		
Материки		
Части света		
Полуострова		
Государства		

2. Запишите, как называется это место ____.

Задание 2. (6 баллов)
Объясните, почему крупные реки Африки, как правило, непригодны для судоходства, но обладают огромными запасами гидроэнергии?
____
____
____
____
____
____
____
____
____

Тапшырма 3. (4 балл)
Ландшафтардын калыптанышынын себеби, б.а., факторлору болуп жаратылыш компоненттери эсептелет: *геологиялык түзүлүш, жер кыртышы, климат, рельеф, ички суулар, өсүмдүктөр дүйнөсү, тоо породалары, пайдалуу кендер, жаныбарлар дүйнөсү.* Ландшафтты калыптандыруучу факторлордун баарын эки топко бөлгүлө жана аларды тийиштүү мамычаларга жазгыла.

1. Зоналдык факторлор	2. Азоналдык факторлор
______________________	______________________
______________________	______________________
______________________	______________________
______________________	______________________
______________________	______________________
______________________	______________________

Тапшырма № 4. (4 балл)
Төмөндө дүйнөнүн атактуу жерлеринин тизмеси берилген. Ал жерлердин аталыштарынын жанына алар жайгашкан өлкөлөрдүн аттарын жазгыла.
1. Шейх Зайддын мечити____
2. Мачу-Пикчу ____
3. Стоунхендж ____
4. Асаф-ибн-Бурхия мавзолейи____
5. Лалибеладагы аска чиркөөлөр____
6. Акрополь ____
7. Версаль сарайы____
8. Тадж-Махал ____
9. Харбор-Бридж көпүрөсү____

Тапшырма 5. (10 балл)
Төмөнкү түшүнүк жана кубулуштарга аныктама жазгыла:

1. Сирокко - ____
____
____.
2. Гаучо - ____
____
____.
3. Поророка - ____
____
____.
4. Адырлар -
____
____
____.
5. Эндемиктер - ____
____
____.
6. Сельва - ____
____
____.
7. Фавелалар - ____
____
____.

Задание 3. (4 балла)
Причиной формирования ландшафтов, т.е. их факторами выступают природные компоненты: *геологическое строение, почвы, климат, рельеф, внутренние воды, растительный мир, горные породы, полезные ископаемые, животный мир.*
Разделите все ландшафтообразующие факторы на две группы и запишите их в соответствующие столбики.

1. Зональные факторы	2. Азональные факторы
______________________	______________________
______________________	______________________
______________________	______________________
______________________	______________________
______________________	______________________
______________________	______________________

Задание № 4. (4 балла)
Ниже приведен список достопримечательностей мира. Рядом с названиями достопримечательностей напишите названия стран, в которых они находятся.
1. Мечеть шейха Зайда ____
2. Мачу-Пикчу ____
3. Стоунхендж ____
4. Мавзолей Асаф-ибн-Бурхия ____
5. Скальные церкви в Лалибеле ____
6. Акрополь ____
7. Версальский дворец ____
8. Тадж-Махал ____
9. Мост Харбор-Бридж ____

Задание 5. (10 баллов)
Напишите определения для следующих понятий или явлений:

1. Сирокко - ____
____
____.
2. Гаучо - ____
____
____.
3. Поророка - ____
____
____.
4. Адыры - ____
____
____.
5. Эндемики - ____
____
____.
6. Сельва - ____
____
____.
7. Фавелы - ____
____
____.

8. Инфраструктура - ____
____
____.
9. Географиялык фатализм - ____
____
____.
10. Аллювий - ____
____
____.

8. Инфраструктура - ____
____.

9. Географический фатализм - ____
____.

10. Аллювий - ____
____.