География. Районный этап
ПРАКТИЧЕСКИЙ ТУР. ОТВЕТЫ
Максимальное количество баллов за практический тур: 100

Задание №1. Работа с топографической картой **(Всего 17 баллов)**

1. Определите численный и именованный масштаб карты, если известно, что расстояние между линиями километровой сетки равно 1 километру.

Ответ: (по 1 баллу за каждый правильный ответ и 1 балл за решение)
Решение: 1 км (1000 м) на местности = 5см на топокарте, 1 см = 1000:5 = 200 м **(1 балл)**
Численный масштаб: 1:20000 **(1 балл)**
Именованный масштаб: в 1 см 200м **(1 балл)**

2. Определите максимальную высоту на изображенной территории.
Ответ: Максимальная высота 192,1м **(1 балл)**

3. Определите азимут и расстояние по прямой от точки с максимальной высотой до ветряной мельницы.
Ответ:
Азимут: 308° ± 2° **(2 балла)**
Расстояние: 19,5см × 200м = 3900м (3,9 км)±20м **(1 балл)**

4. Через сколько метров проведены горизонтали на топокарте?

Ответ: 5 м **(2 балла)**

5. Начертите профиль местности по линии **А–Б**, показанной на топографической карте. **(Всего 8 баллов, при оценке профиля необходимо учитывать шкалу высот (она может отличаться) (1 балл), расстояние между точками А и Б (должен быть по масштабу карты) (1 балл), ориентиры местности (1 балл), линия профиля (5 баллов).**



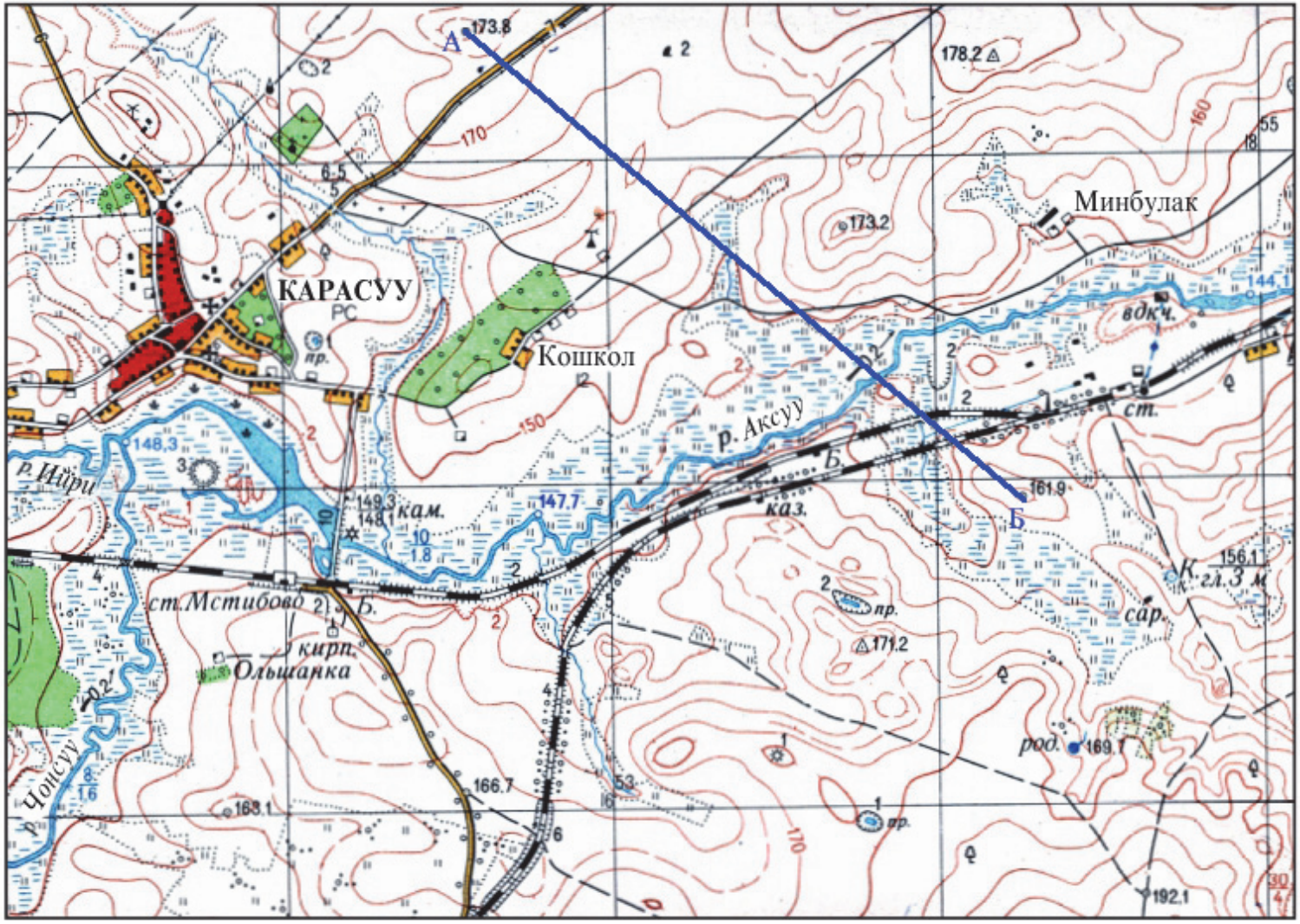
КАРАСУУ
Кошкол
Минбулак
р. Аксуу
р. Ийри
р. Чонсуу
ст. Мстибово
Ольшанка
кирп.
кам.
каз.
ст.
вдкч.
сар.
род.
173.8
178.2
173.2
144.1
148.3
149.3
148.1
147.7
161.9
156.1
171.2
169.1
166.7
168.1
192.1
170
160
150

Задание №2.

Работа с контурной картой Кыргызстана

(Всего 20 баллов. По 1 баллу за каждый правильно указанный на контурной карте объект)

Нанесите на контурную карту следующие месторождения:

1) месторождение серного колчедана Ачык-Таш **(1 балл)**
2) месторождение золота Макмал **(1 балл)**
3) месторождение железа Надир **(1 балл)**
4) месторождение железа Джетим **(1 балл)**

Нанесите на контурную карту следующие заповедники:

5) Беш-Аральский **(1 балл)**
6) Сарычат-Ээрташский **(1 балл)**
7) Каратал-Жапырыкский **(1 балл)**
8) Кулун-Атинский **(1 балл)**

Нанесите на контурную карту следующие вершины (пики):

9) Пик Ленина **(1 балл)**
10) Чоктал **(1 балл)**
11) Пирамидальный **(1 балл)**
12) Пик Победы **(1 балл)**

Нанесите на контурную карту следующие горные хребты:

13) Байбиче-Тоо **(1 балл)**
14) Алайский **(1 балл)**
15) Ат-Ойнокский **(1 балл)**
16) хребет Академика Адышева **(1 балл)**
17) Таласский Ала-Тоо **(1 балл)**

Нанесите на контурную карту следующие национальные парки:

18) Ала-Арча **(1 балл)**
19) Саркент **(1 балл)**
20) Кыргыз-Ата **(1 балл)**

КЫРГЫЗ РЕСПУБЛИКАСЫ. КЫРГЫЗСКАЯ РЕСПУБЛИКА

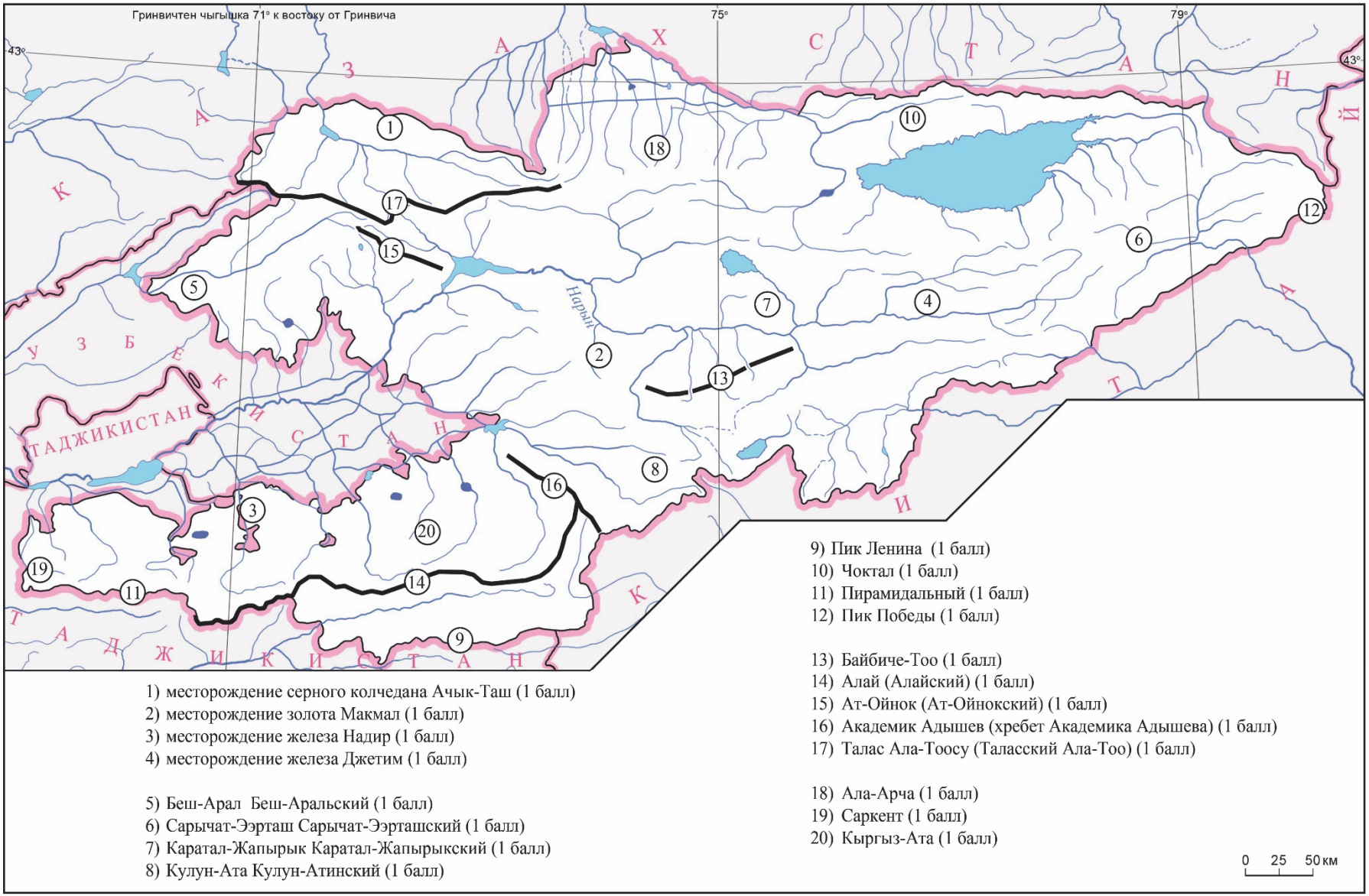

1) месторождение серного колчедана Ачык-Таш (1 балл)
2) месторождение золота Макмал (1 балл)
3) месторождение железа Надир (1 балл)
4) месторождение железа Джетим (1 балл)

5) Беш-Арал Беш-Аральский (1 балл)
6) Сарычат-Ээрташ Сарычат-Ээрташский (1 балл)
7) Каратал-Жапырык Каратал-Жапырыкский (1 балл)
8) Кулун-Ата Кулун-Атинский (1 балл)

9) Пик Ленина (1 балл)
10) Чоктал (1 балл)
11) Пирамидальный (1 балл)
12) Пик Победы (1 балл)

13) Байбиче-Тоо (1 балл)
14) Алай (Алайский) (1 балл)
15) Ат-Ойнок (Ат-Ойнокский) (1 балл)
16) Академик Адышев (хребет Академика Адышева) (1 балл)
17) Талас Ала-Тоосу (Таласский Ала-Тоо) (1 балл)

18) Ала-Арча (1 балл)
19) Саркент (1 балл)
20) Кыргыз-Ата (1 балл)

© M & T

Задание №3. Работа с контурной картой Мира.
(Всего 33 балла. По 1 баллу за каждый правильно указанный на контурной карте объект)

Укажите на контурной карте Мира, где расположены следующие географические объекты:

Города:
1. Сан-Паулу
2. Мельбурн
3. Киншаса
4. Дакка
5. Манила
6. Богота
7. Иркутск

Государства:
8. Куба
9. Оман
10. Чили
11. Тунис
12. Афганистан
13. Сингапур

Острова:
14. о. Банкс
15. о. Ява
16. о. Корсика
17. о. Крит
18. о. Кюсю
19. о. Ванкувер
20. о-ва Галапагос

Озёра:
21. Мичиган
22. Танганьика
23. Чад
24. Кукунор (Цинхай)
25. Ладожское
26. Венерн
27. Балхаш

Моря и заливы
28. Коралловое море
29. Бенгальский залив
30. Берингово море
31. Бискайский залив
32. Гудзонов залив
33. море Бофорта

о. Банкс а.
Бофорт денизи
море Бофорта
Беринг денизи
Берингово море
Гудзон бул.
Гудзонский зал.
о.Ванкувер а.
оз.Мичиган к.
КУБА
Богота
Галапагос
а-дары (о-ва)
Сан-Паулу
ЧИЛИ
оз.Венерн к.
Ладога к.
Ладожское оз.
Бискай бул.
Бискайский зал.
о. Корсика а.
ТУНИС
о. Крит а.
оз.Чад к.
Киншаса
оз.Танганьика к.
ОМАН
АФГАНИСТАН
оз.Балхаш к.
Иркутск
оз.Кукунор к.
Дакка
Бенгал бул.
Бенгальский зал.
о.Кюсю а.
Манила
СИНГАПУР
о. Ява а.
Коралл денизи
Коралловое море
Мельбурн
Беринг денизи
Берингово море

Задание №4. (Максимальное количество баллов 30, по 1 баллу за каждый правильный ответ):

Заполните пустые ячейки нижеследующей таблицы.

Флаг	Страна	Столица	Часть Света
	Аргентина	Буэнос-Айрес	Америка
	Бурунди	Гитега	Африка
	Бутан	Тхимпху	Азия
	Коморы	Морони	Африка
	Сент-Люсия	Кастри	Америка
	Барбадос	Бриджтаун	Америка
	Уганда	Кампала	Африка
	Албания	Тирана	Европа
	Венесуэла	Каракас	Америка
	Мальта	Валлетта	Европа